ESCOLA _____DATA:_____/_____/_____

PROF:_____TURMA:_____

NOME:_____

Ordem dos números naturais

Observe a sequência numérica :

0 - 1 - 2 – 3 – 4 – 5 – 6 - 7 – 8 – 9 – 10 – 11 – 12

O 2 vem antes do 5. Por isso, 2 é menor que 5 ou 2 < 5

O 12 vem depois do 10. Então, 12 é maior que 10 ou 12 >10

1.Agora faça a análise e coloque os sinais de maior do que(>) e menor do que(<).

a. 20 e 34 – 20 < 34

b.14 e 12 – 14 > 12

c.10 e 9 – 10 > 9

d.57 e 44 – 57 >44

e.30 e 47 -30 < 47

g.90 e 32 – 90 >32

2.Observe a sequência de números abaixo e responda:

26 - 37 – 58 – 72 – 19 – 9

a.Quais são os números menores que 40? 26 - 37– 19 – 9

b.Os números que ficam entre 40 e 80? 58 – 72

c.O número maior que 60? 72

3.Manoela e seus amigos terminaram um jogo. Ela fez uma tabela para marcar os pontos que cada um fez.

Pedro	40
Paulo	20
Samanta	70
Beatriz	50

Após analisar a tabela acima responda:

a.Qual número é maior que 40. 50

b.Qual número é menor que 30. 20

c.Quais números são menores que 70. 40,20,50

d.O número 70 é maior ou menor que 85? Circule o símbolo correto. (>) , (<)

4.Determine e registre nos quadrinhos os resultados das duas operações e relacione os resultados com os sinais maior do que(>) e menor do que(<).

a)

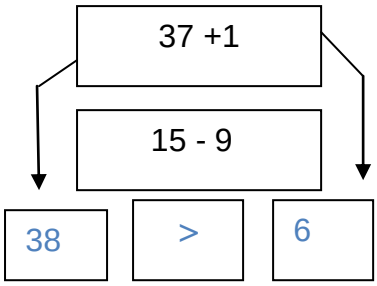

b.)

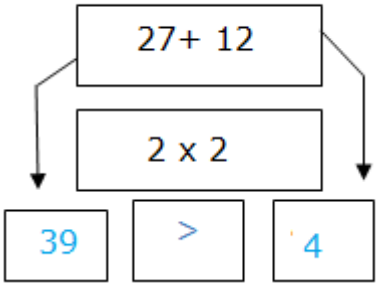

c)

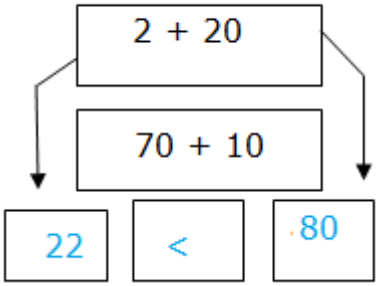

d.)

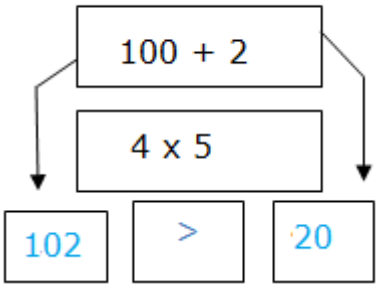

e)

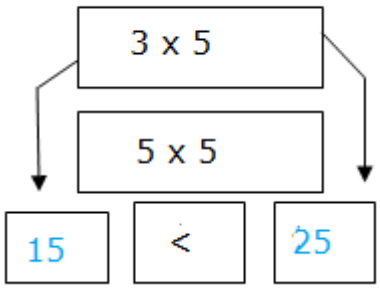

5.Use os sinais maior do que(>) e menor do que(<).

a.6 >3

b.9 > 2

c.2 >1

d.100 > 90

e.37 < 100

f.45 < 56

g.67 < 76

h.97 < 114

i.78 < 89

j.9 < 23